Transformations Géométriques (A)

Dessinez l'image finale et les étapes intermédiaires des transformations décrites.

Déplacement de la figure par (-5, -2).
Déplacement de la figure par (-5, 1).
Réflexion par rapport à l'axe x = -2.

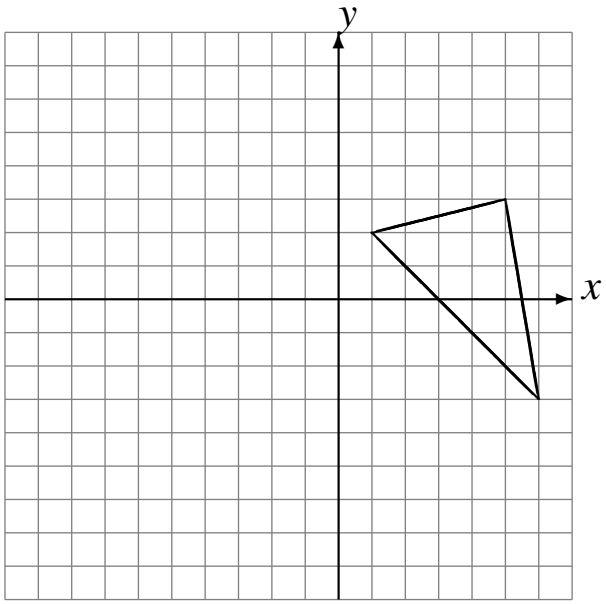

Rotation dans le sens antihoraire de 90° autour du point (3, -5).
Rotation dans le sens horaire de 90° autour du point (4, 4).
Réflexion par rapport à l'axe x = 3.

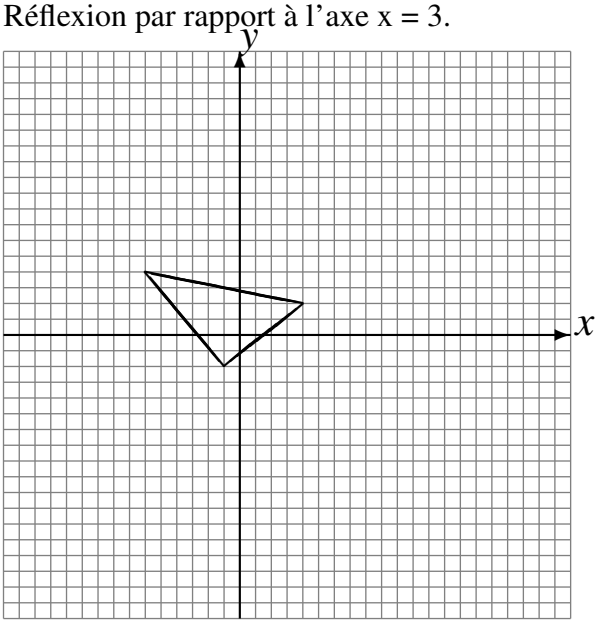

Rotation dans le sens horaire de 90° autour du point (4, 2).
Déplacement de la figure par (-6, 4).
Rotation dans le sens antihoraire de 90° autour du point (-5, 5).

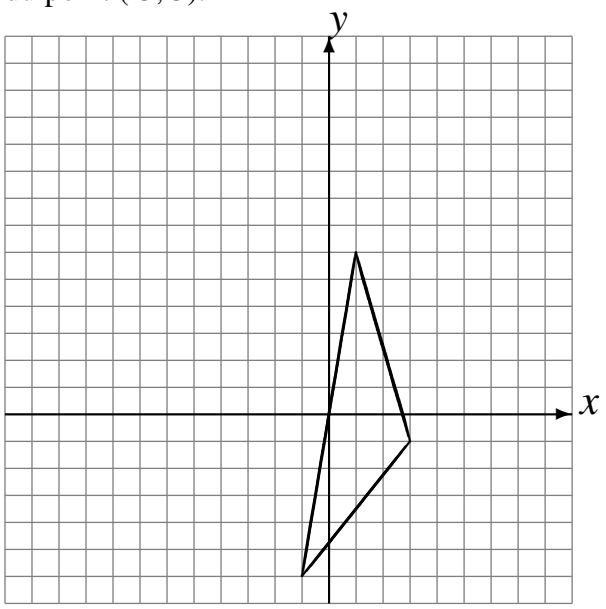
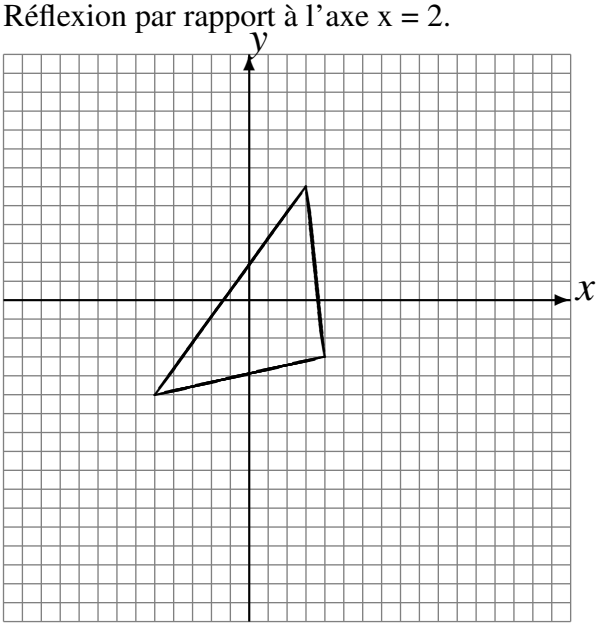
Déplacement de la figure par (-3, -5).
Rotation de 180° autour du point (4, -3).
Réflexion par rapport à l'axe x = 2.