Rotations (F)

Dessinez l'image finale et les étapes intermédiaires de la rotation décrite.

Rotation dans le sens antihoraire de 90° autour du point (2, 4).
Rotation dans le sens horaire de 90° autour du point (-2, -2).
Rotation dans le sens horaire de 90° autour du point (-5, 0).

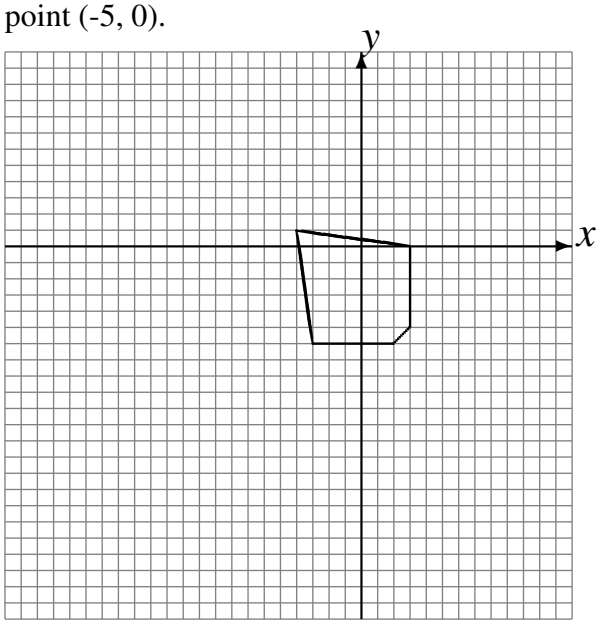

Rotation dans le sens horaire de 90° autour du point (0, 1).
Rotation dans le sens antihoraire de 90° autour du point (4, -5).
Rotation dans le sens antihoraire de 90° autour du point (-2, 1).

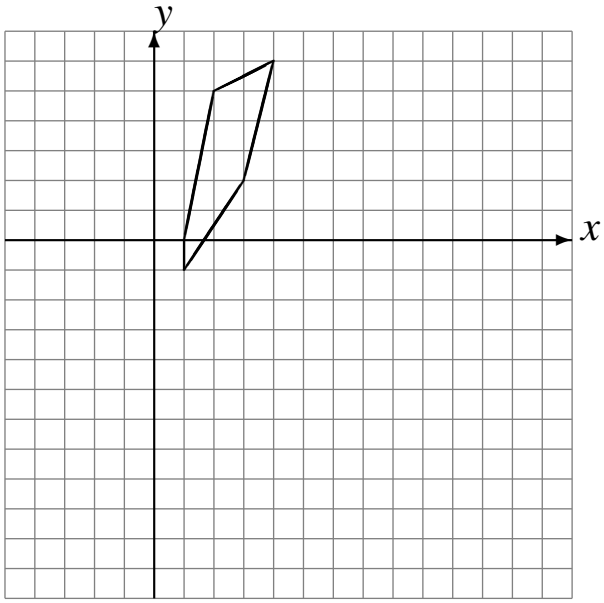

Rotation dans le sens horaire de 90° autour du point (1, 0).
Rotation de 180° autour du point (-4, 5).
Rotation dans le sens antihoraire de 90° autour du point (4, 2).

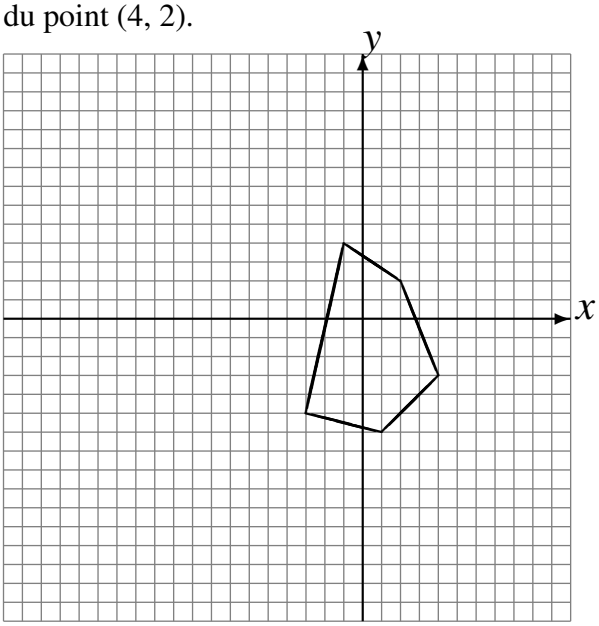
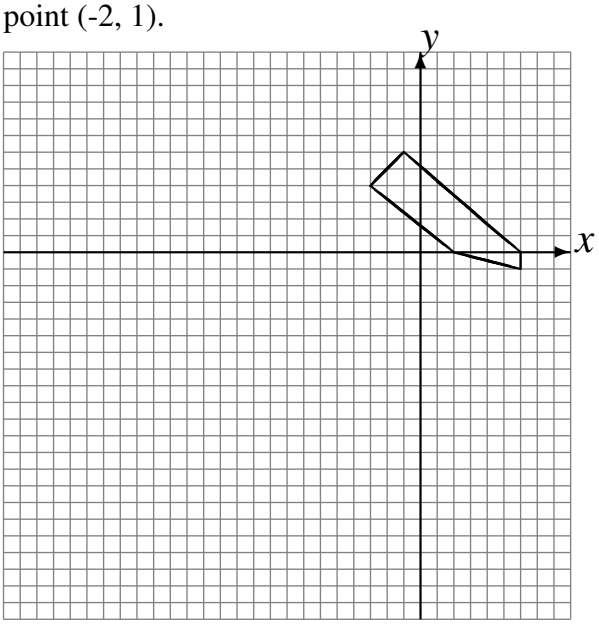
Rotation de 180° autour du point (2, 5).
Rotation de 180° autour du point (3, -5).
Rotation dans le sens horaire de 90° autour du point (-2, 1).