Rotations (B)

Dessinez l'image finale et les étapes intermédiaires de la rotation décrite.

Rotation de 180° autour du point (4, -1).
Rotation dans le sens antihoraire de 90° autour du point (-2, -4).
Rotation de 180° autour du point (-4, 0).

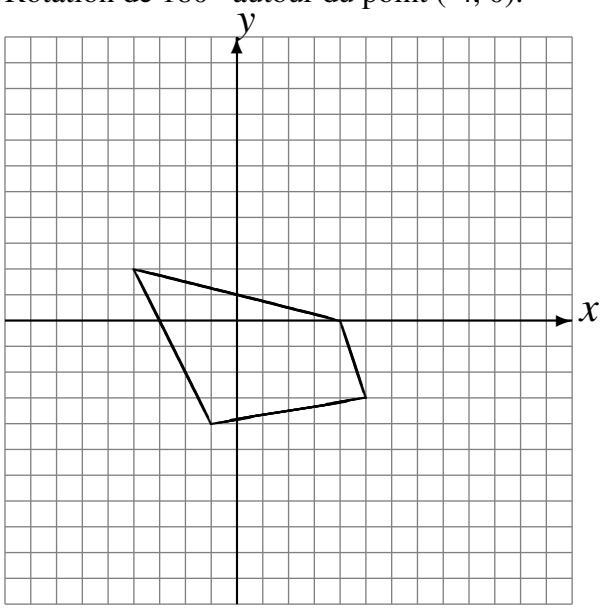

Rotation de 180° autour du point (3, 4).
Rotation dans le sens horaire de 90° autour du point (-1, -4).
Rotation dans le sens antihoraire de 90° autour du point (5, 1).

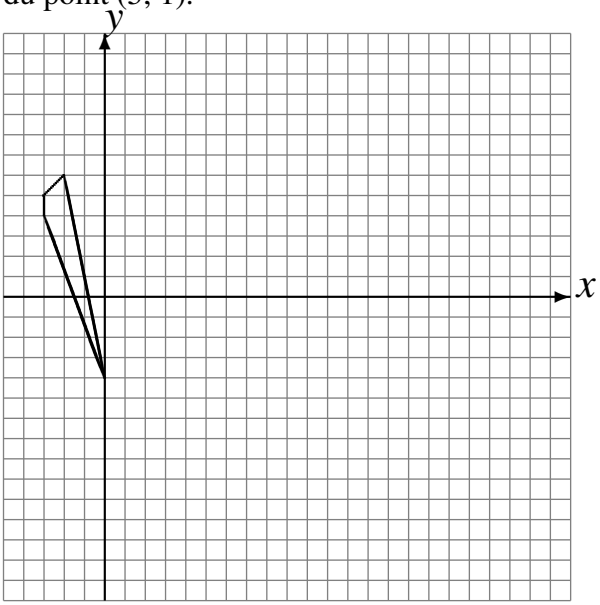

Rotation dans le sens horaire de 90° autour du point (-4, 0).
Rotation de 180° autour du point (-2, -2).
Rotation dans le sens horaire de 90° autour du point (3, -2).

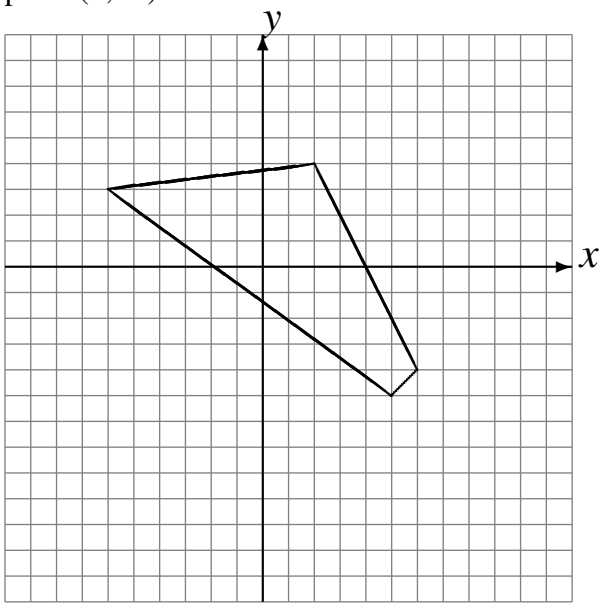
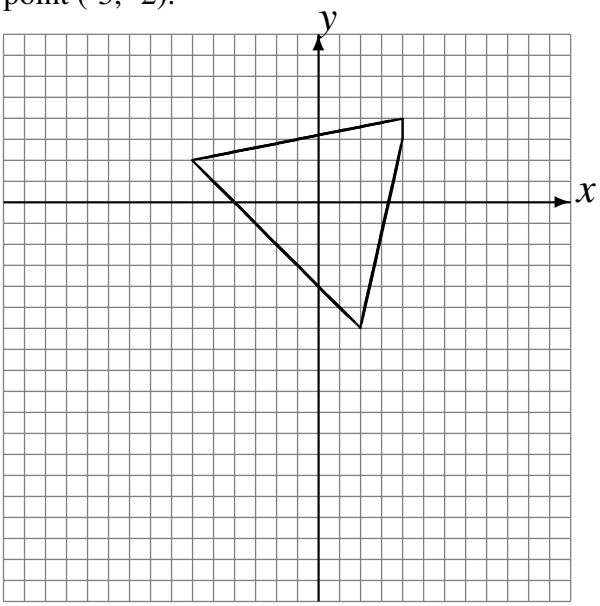
Rotation dans le sens horaire de 90° autour du point (-1, 0).
Rotation de 180° autour du point (2, -4).
Rotation dans le sens horaire de 90° autour du point (-3, -2).