Rotations (J)

Dessinez l'image finale et les étapes intermédiaires de la rotation décrite.

Rotation dans le sens horaire de 90° autour du point (0, 2).
Rotation dans le sens antihoraire de 90° autour du point (-5, -4).
Rotation dans le sens horaire de 90° autour du point (-3, 4).

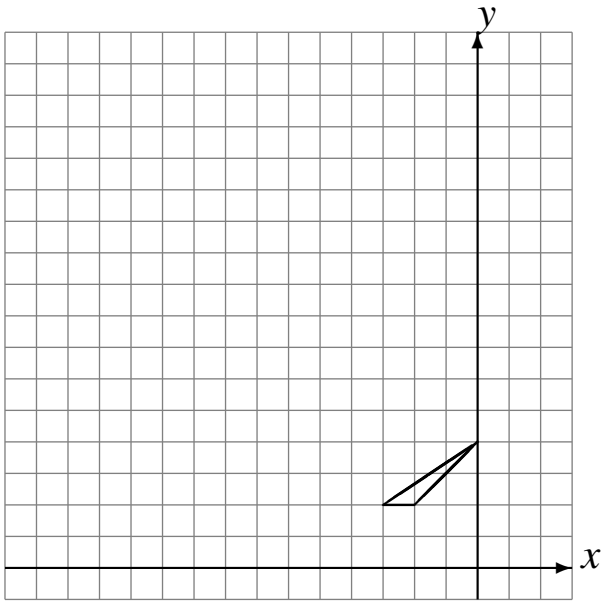

Rotation dans le sens horaire de 90° autour du point (4, -4).
Rotation dans le sens antihoraire de 90° autour du point (-4, 3).
Rotation dans le sens antihoraire de 90° autour du point (4, -5).

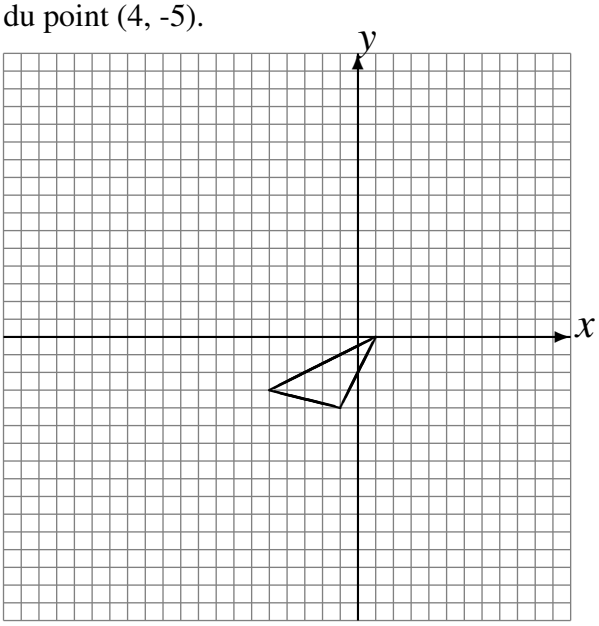

Rotation dans le sens horaire de 90° autour du point (-3, 1).
Rotation dans le sens antihoraire de 90° autour du point (5, -2).
Rotation de 180° autour du point (0, -5).

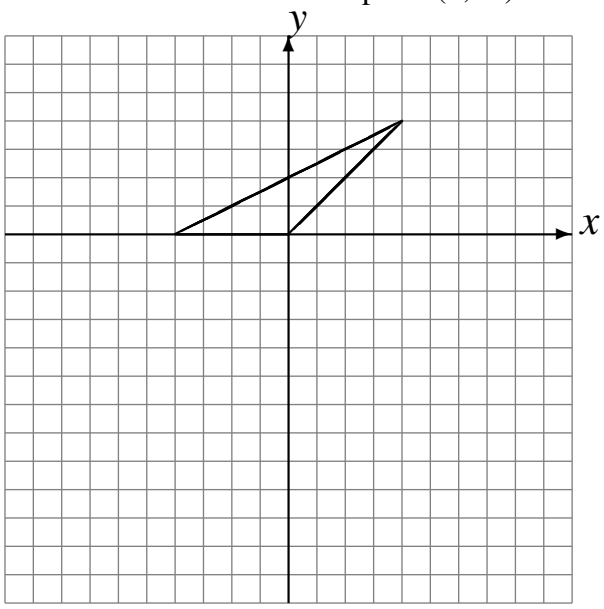
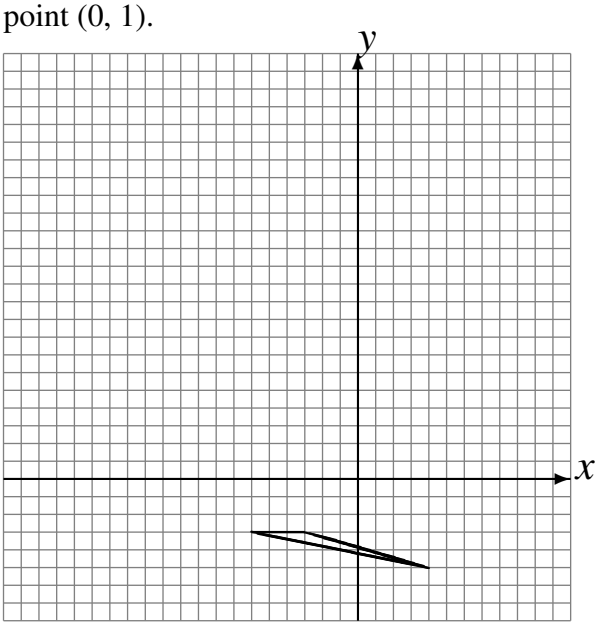
Rotation dans le sens antihoraire de 90° autour du point (2, 4).
Rotation de 180° autour du point (-4, 3).
Rotation dans le sens horaire de 90° autour du point (0, 1).