Rotations (E)

Dessinez l'image finale et les étapes intermédiaires de la rotation décrite.

Rotation de 180° autour du point (2, 1).
Rotation de 180° autour du point (1, 4).
Rotation de 180° autour du point (4, -3).

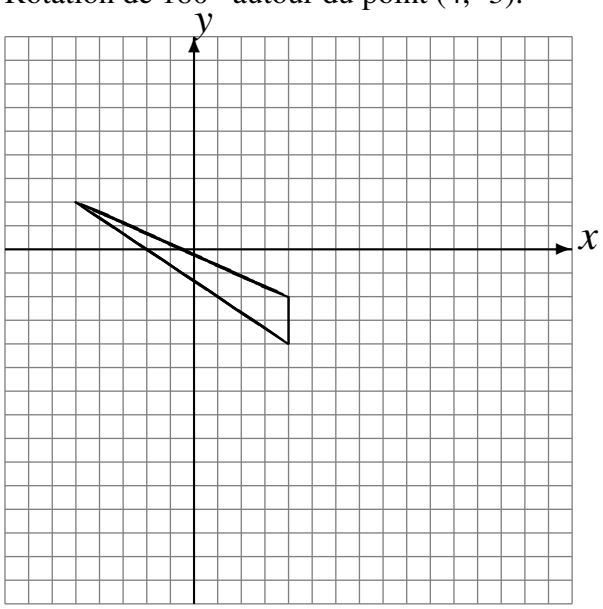

Rotation dans le sens antihoraire de 90° autour du point (0, 3).
Rotation de 180° autour du point (4, -5).
Rotation de 180° autour du point (-5, -4).

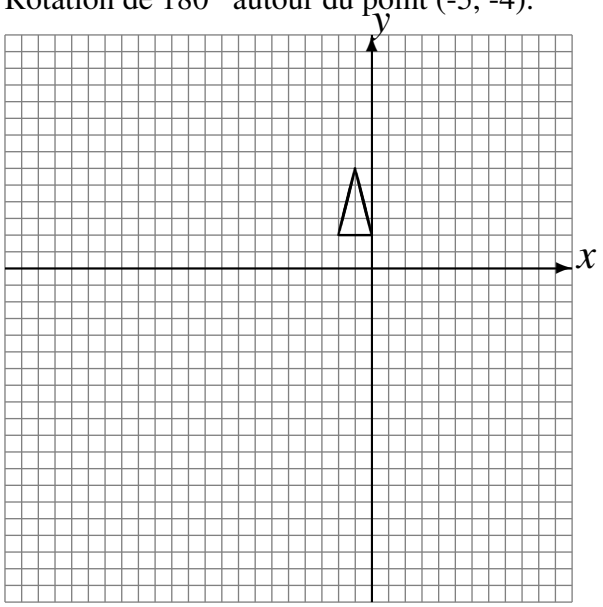

Rotation dans le sens antihoraire de 90° autour du point (-5, -1).
Rotation dans le sens antihoraire de 90° autour du point (-5, -1).
Rotation dans le sens horaire de 90° autour du point (5, -2).

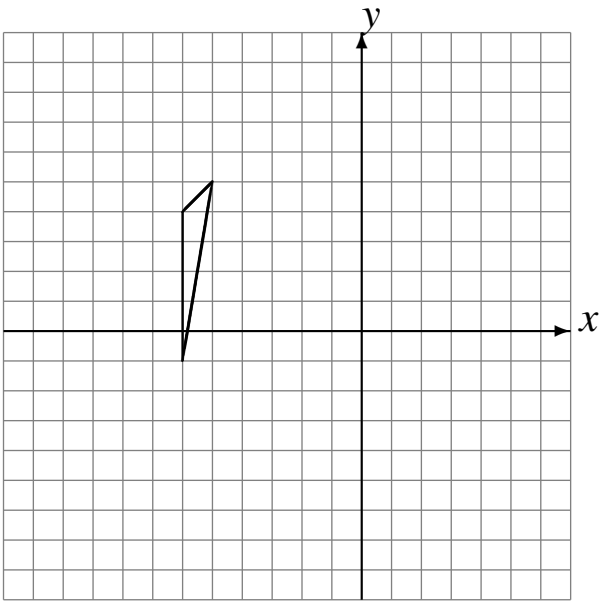
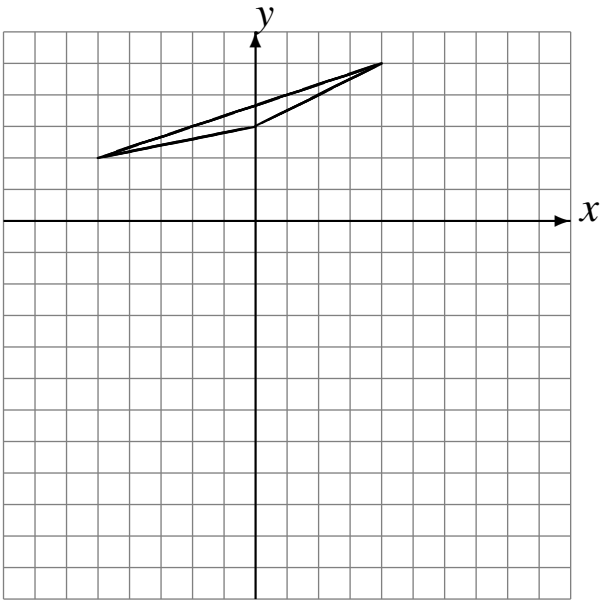
Rotation dans le sens antihoraire de 90° autour du point (5, 3).
Rotation dans le sens antihoraire de 90° autour du point (2, -2).
Rotation dans le sens horaire de 90° autour du point (-4, 0).