Réflexions (H)

Dessinez l'image finale et les étapes intermédiaires de la réflexion décrite.

Réflexion par rapport à l'axe y = -4.
Réflexion par rapport à l'axe y = -4.
Réflexion par rapport à l'axe x = 2.

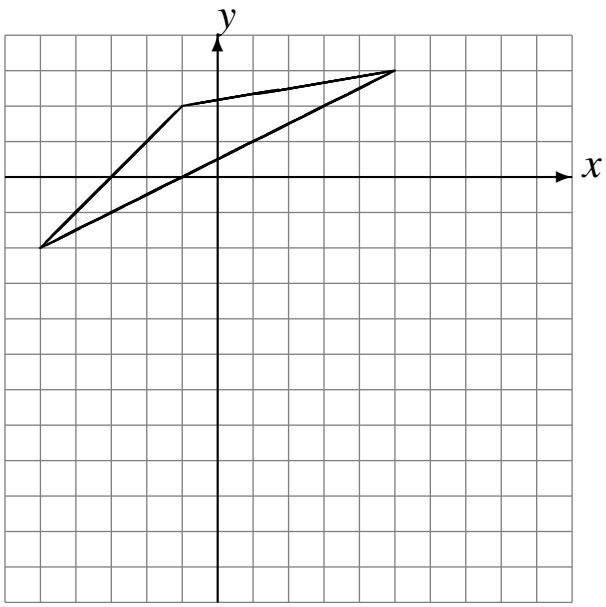

Réflexion par rapport à l'axe y = 0.
Réflexion par rapport à l'axe y = 3.
Réflexion par rapport à l'axe y = 0.

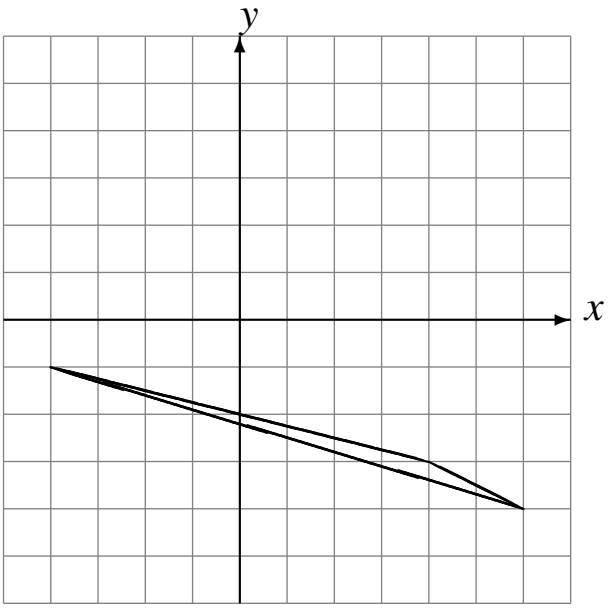

Réflexion par rapport à l'axe y = -3.
Réflexion par rapport à l'axe y = -1.
Réflexion par rapport à l'axe x = 4.

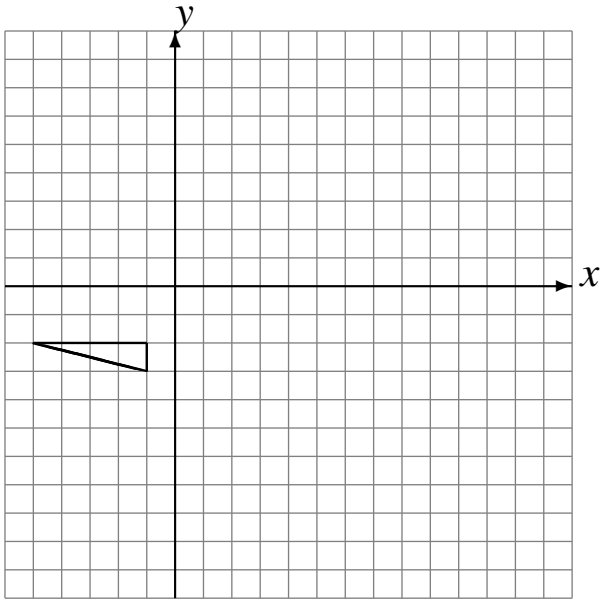
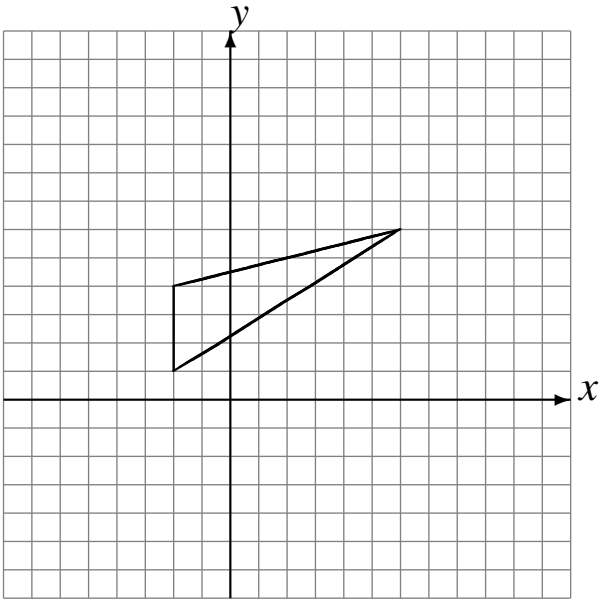
Réflexion par rapport à l'axe y = 1.
Réflexion par rapport à l'axe y = 4.
Réflexion par rapport à l'axe y = 3.