L'Homothétie (H)

Dessinez l'image finale et les étapes intermédiaires de l'homothétie décrite.

Homothétie de centre (1, -4) et de rapport 3.
Homothétie de centre (2, 1) et de rapport 4.

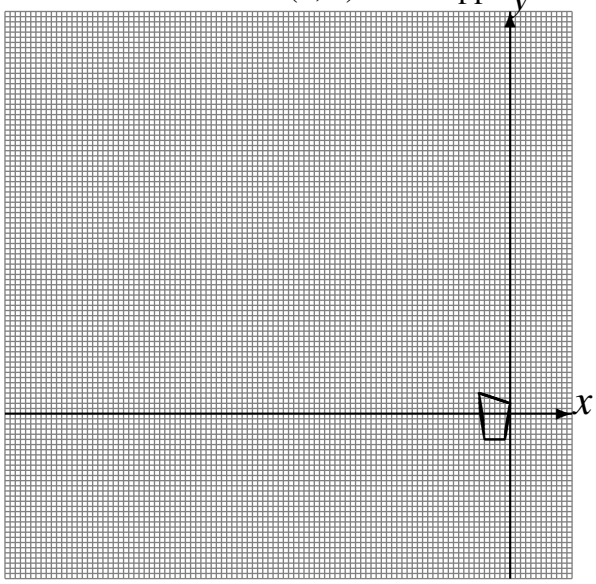

Homothétie de centre (-5, -4) et de rapport 4.
Homothétie de centre (4, -2) et de rapport 4.

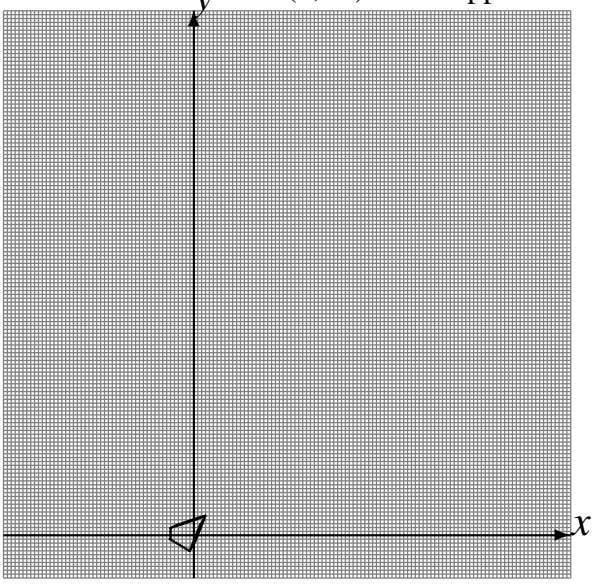

Homothétie de centre (2, -1) et de rapport 3.
Homothétie de centre (4, 3) et de rapport 3.


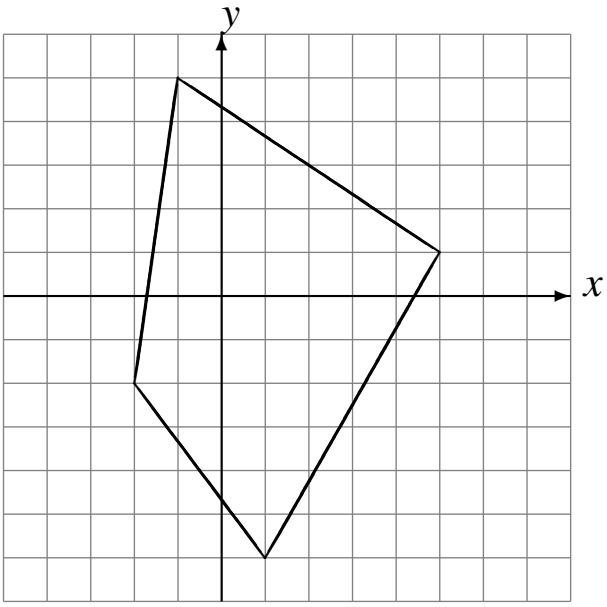
Homothétie de centre (5, -1) et de rapport $\frac{1}{3}$.
Homothétie de centre (3, 5) et de rapport $\frac{1}{2}$.