L'Homothétie (A)

Dessinez l'image finale et les étapes intermédiaires de l'homothétie décrite.

Homothétie de centre (-2, 5) et de rapport $\frac{1}{4}$.
Homothétie de centre (-5, -2) et de rapport $\frac{1}{4}$.

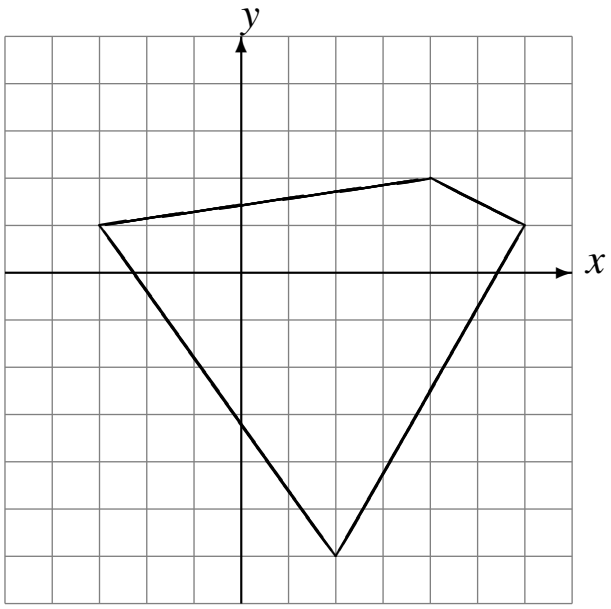

Homothétie de centre (3, -3) et de rapport $\frac{1}{4}$.
Homothétie de centre (2, -5) et de rapport $\frac{1}{2}$.

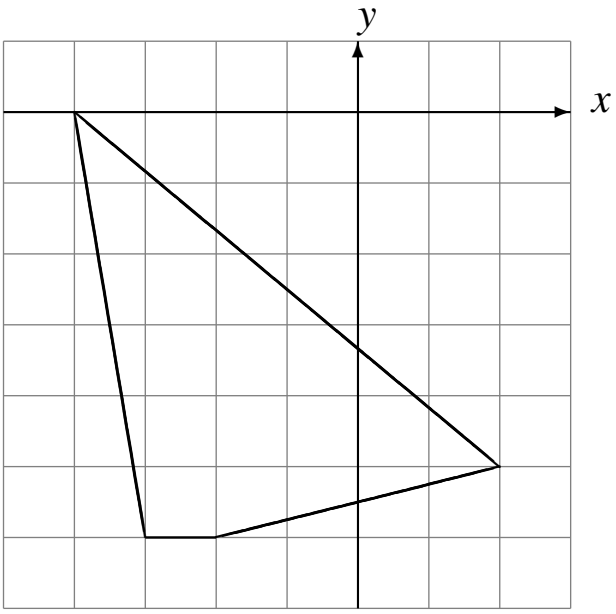

Homothétie de centre (-3, 0) et de rapport $\frac{1}{3}$.
Homothétie de centre (-3, -2) et de rapport 3.

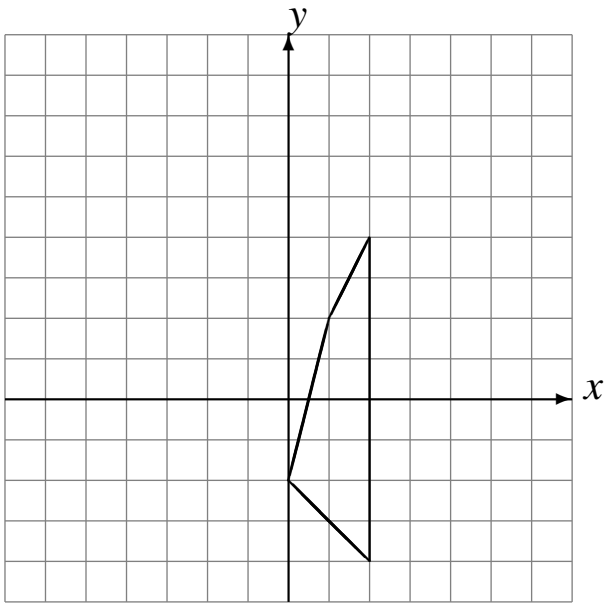
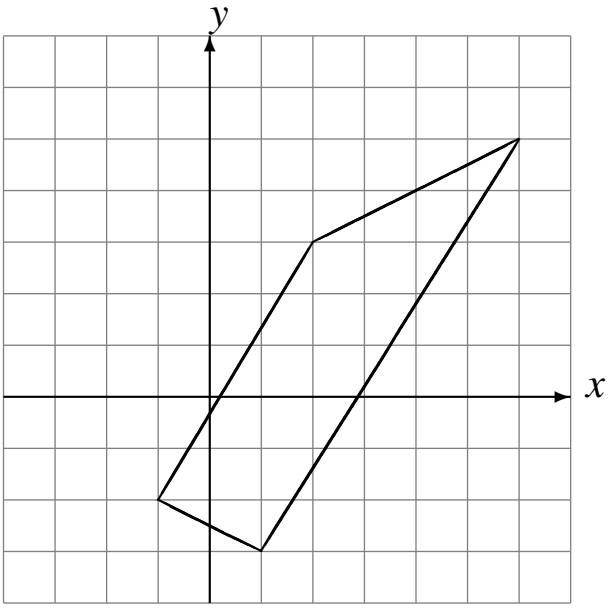
Homothétie de centre (-5, -3) et de rapport $\frac{1}{2}$.
Homothétie de centre (-1, 4) et de rapport $\frac{1}{2}$.