L'Homothétie (J)

Dessinez l'image finale et les étapes intermédiaires de l'homothétie décrite.

Homothétie de centre (5, -4) et de rapport $\frac{1}{4}$.
Homothétie de centre (-2, 4) et de rapport 2.
Homothétie de centre (2, -4) et de rapport $\frac{1}{2}$.

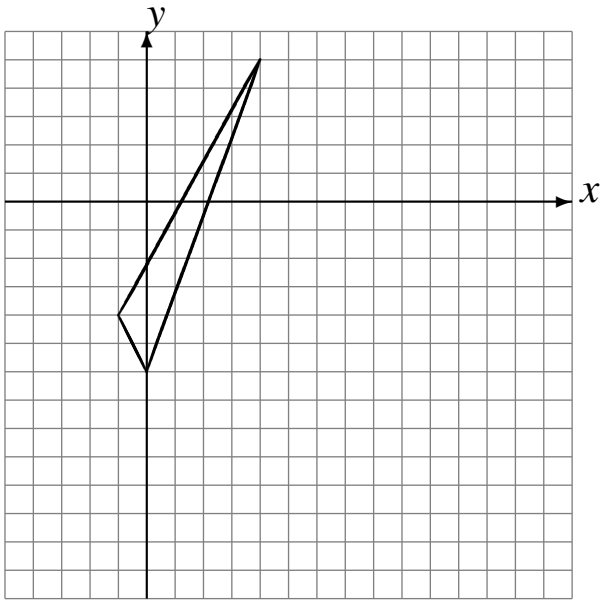

Homothétie de centre (-2, -1) et de rapport 2.
Homothétie de centre (-1, -2) et de rapport $\frac{1}{2}$.
Homothétie de centre (3, 2) et de rapport 4.

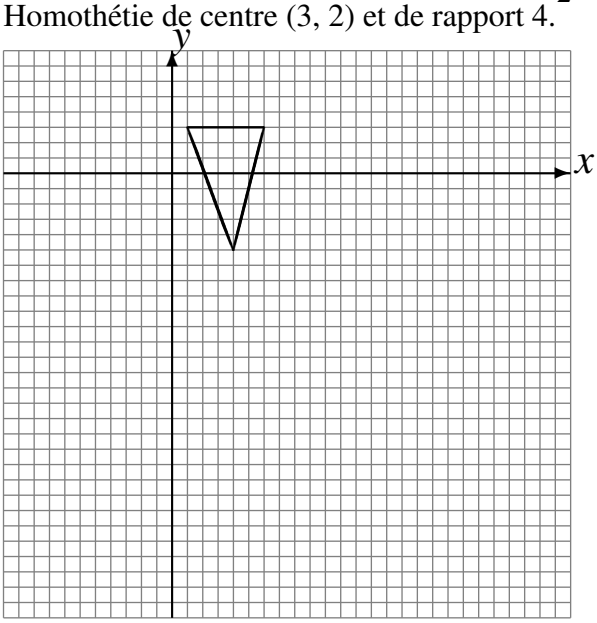

Homothétie de centre (-2, 1) et de rapport 3.
Homothétie de centre (3, 4) et de rapport $\frac{1}{2}$.
Homothétie de centre (5, -3) et de rapport 4.

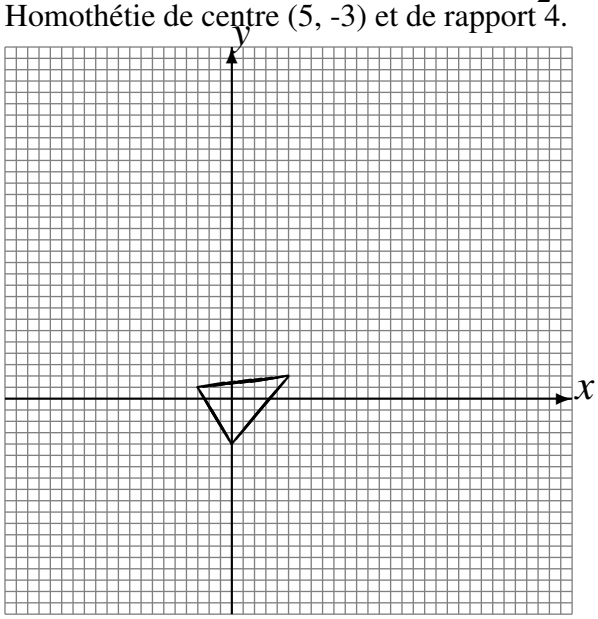

Homothétie de centre (2, 5) et de rapport 3.
Homothétie de centre (2, 4) et de rapport 3.
Homothétie de centre (2, 5) et de rapport 3.

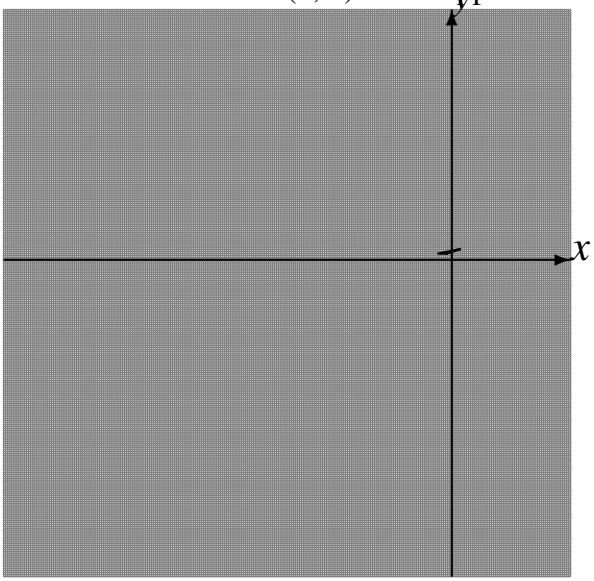

L'Homothétie (J) Solutions

Dessinez l'image finale et les étapes intermédiaires de l'homothétie décrite.

Homothétie de centre (5, -4) et de rapport $\frac{1}{4}$.
Homothétie de centre (-2, 4) et de rapport 2.
Homothétie de centre (2, -4) et de rapport $\frac{1}{2}$.

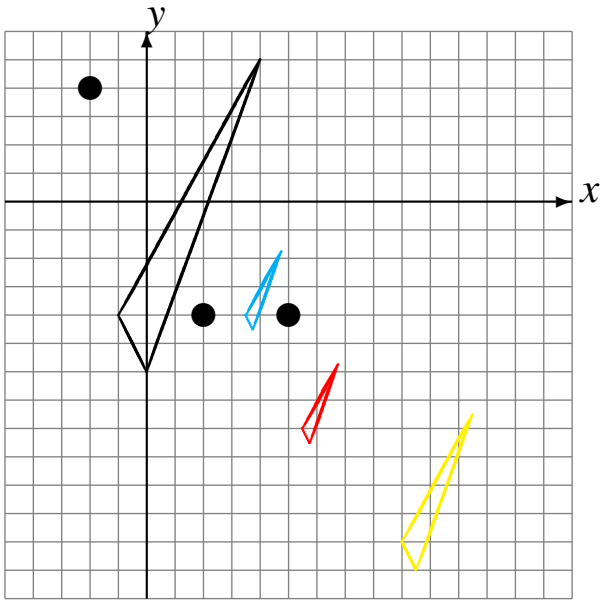

Homothétie de centre (-2, -1) et de rapport 2.
Homothétie de centre (-1, -2) et de rapport $\frac{1}{2}$.
Homothétie de centre (3, 2) et de rapport 4.

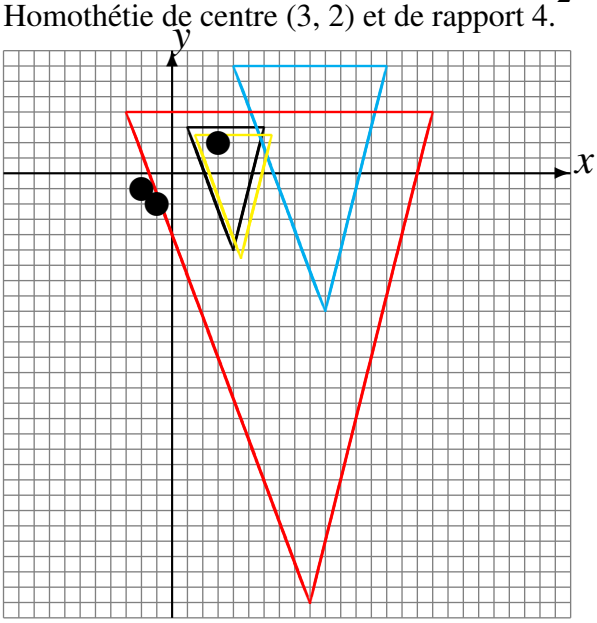

Homothétie de centre (-2, 1) et de rapport 3.
Homothétie de centre (3, 4) et de rapport $\frac{1}{2}$.
Homothétie de centre (5, -3) et de rapport 4.

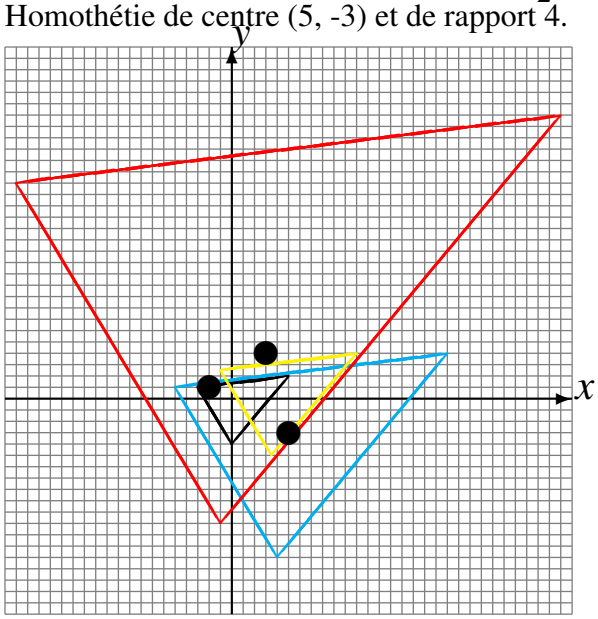
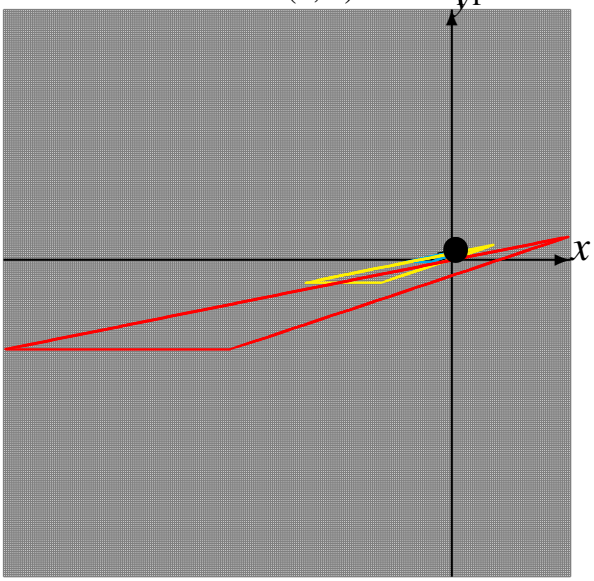
Homothétie de centre (2, 5) et de rapport 3.
Homothétie de centre (2, 4) et de rapport 3.
Homothétie de centre (2, 5) et de rapport 3.