Modèles d'un Ensemble (G)

Dans cet ensemble il y a 6 figures et 3 sont coloriées.

$$\frac{\text{3 figures coloriées}}{\text{6 figures dans cet ensemble}} = \frac{3}{6} = \frac{1}{2}$$

Écrivez une fraction pour chacun des modèles suivants.

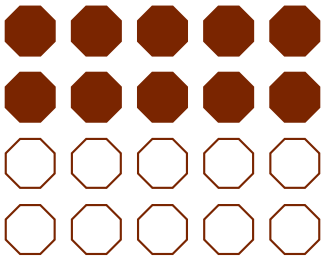







Modèles d'un Ensemble (G) Réponses

Dans cet ensemble il y a 6 figures et 3 sont coloriées.

$$\frac{\text{3 figures coloriées}}{\text{6 figures dans cet ensemble}} = \frac{3}{6} = \frac{1}{2}$$

Écrivez une fraction pour chacun des modèles suivants.

$$\frac{2}{4} = \frac{1}{2}$$

$$\frac{4}{8} = \frac{1}{2}$$



$$\frac{10}{20} = \frac{1}{2}$$

$$\frac{5}{10} = \frac{1}{2}$$



$$\frac{12}{24} = \frac{1}{2}$$

$$\frac{1}{2}$$



$$\frac{6}{12} = \frac{1}{2}$$



$$\frac{9}{18} = \frac{1}{2}$$