Modèles d'un Ensemble (A)

Dans cet ensemble il y a 8 figures et 4 sont coloriées.

$$\frac{\text{4 figures coloriées}}{\text{8 figures dans cet ensemble}} = \frac{4}{8} = \frac{1}{2}$$

Écrivez une fraction pour chacun des modèles suivants.