Compte de Blocs de Base Dix (E)

Instructions: Comptez le nombre d'unités qui se trouvent dans chaque groupe ci-dessous.

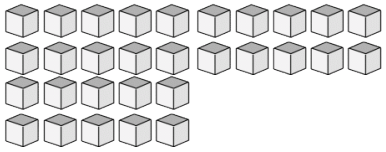

Il y a _____ unités dans ce groupe.

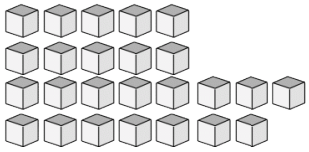

Il y a _____ unités dans ce groupe.

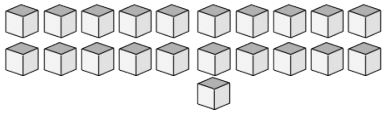

Il y a _____ unités dans ce groupe.

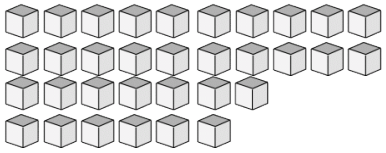

Il y a _____ unités dans ce groupe.

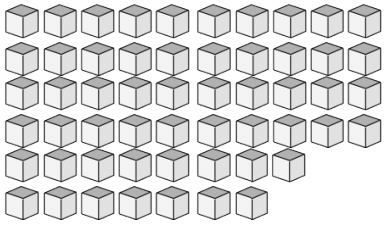

Il y a _____ unités dans ce groupe.

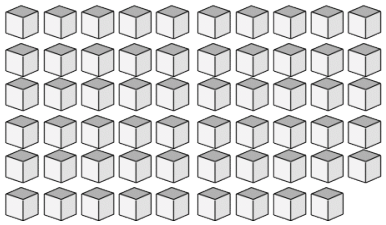

Il y a _____ unités dans ce groupe.

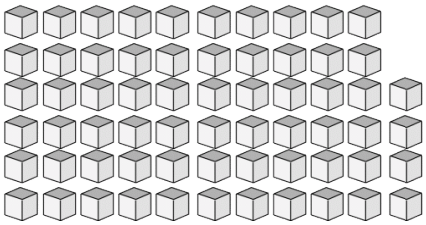

Il y a _____ unités dans ce groupe.

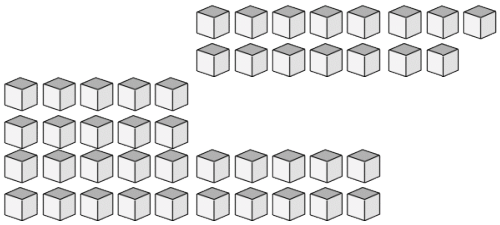

Il y a _____ unités dans ce groupe.